Zahlenfreunde bis 10

Mathe · Klasse 1

Name: _____ Datum: _____

Welche zwei Zahlen ergeben zusammen 10?

Zähle die leeren Kreise und ergänze die Rechnung.

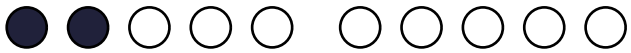

2 + _____ = 10

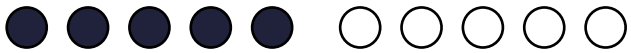

5 + _____ = 10



8 + _____ = 10

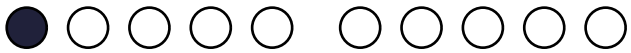

1 + _____ = 10



6 + _____ = 10

Extra: Finde ein Zahlenpaar, das auf diesem Blatt noch fehlt.

_____ + _____ = 10